Prénom : _____ Date : _____

Nombres et calculs : La division décimale
Diviser un nombre décimal par un nombre entier

CM2

Fiche d'exercices n°46

➡ **Exercice 1** : **Complète** chaque opération.

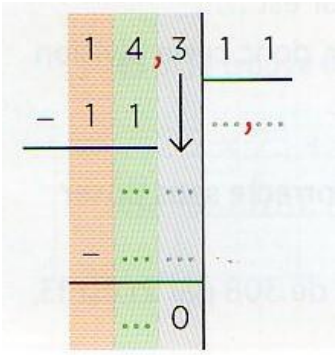

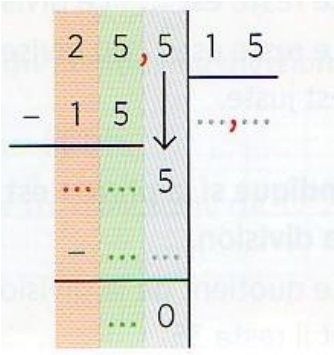

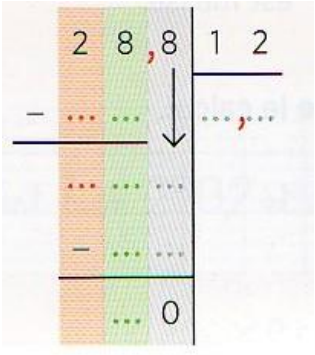

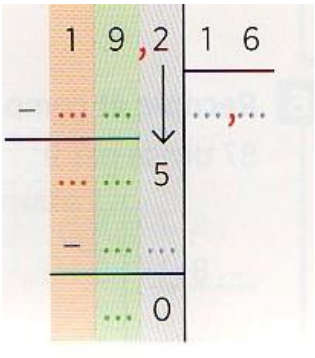

➡ **Exercice 2** : **Pose** et **effectue** les opérations suivantes au centième près.

80,85 : 3	10,51 : 4	70,68 : 6	20,48 : 6
99,1 : 3	175,4 : 6	16,2 : 3	567,8 : 8

➡ **Exercice 3** : **Résous** les problèmes suivants.

Problème n°1 : Un carré a un périmètre de 13,6 m.
Quelle est la longueur d'un côté au centimètre près ?

Problème n°2 : 6 balles de ping-pong pèsent 16,2 g.
Quelle est la masse d'une seule balle ?

Problème n°3 : Clément a récolté les pommes de son jardin. Il a obtenu 6,75 L de jus de pommes et rempli 9 bouteilles.
Quelle est la contenance de chaque bouteille ?

Problème n°4 : Le paquet de 8 biftecks hachés a une masse totale de 0,96 kg.
Quelle est la masse d'un seul bifteck en kg ?