Problèmes

1) A l'école, Hamidou a apporté 16 billes.
Thomas, lui, a apporté 8 billes.
Combien ont-ils de billes ensemble ?

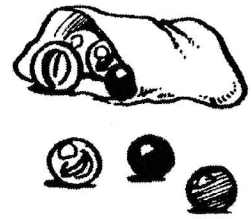

Je dessine



Opération

16 + 8 = 24

Ils ont 24 billes.

2) Dans ma boîte de bonbons, j'ai 10 carambars, 3 sucettes,
8 têtes brûlées et 4 bonbons à la fraise.
Combien ai-je de bonbons dans ma boîte ?

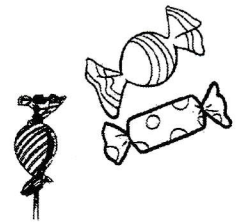

Je dessine

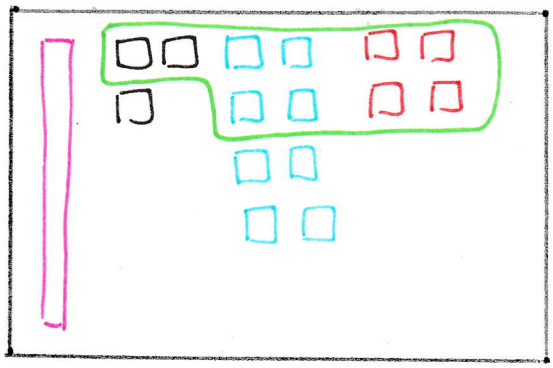

Opération

10 + 3 + 8 + 4 = 25

J'ai 25 bonbons dans ma boîte.