Mesurer des longueurs

1 Avec ta règle graduée en cm, **mesure** la longueur des traits ci-dessous et **complète**.

Ce trait mesure 7 cm.

Ce trait mesure 5 cm.

Ce trait mesure 12 cm.

Ce trait mesure 13 cm.

2 Trace en vert un segment qui mesure 4 cm. Trace en bleu un segment qui mesure 7 cm. Trace en rouge un segment qui mesure entre 5 cm et 6 cm.

3 **Mesure** les tiges de bois avec ta règle graduée, puis **écris** leurs longueurs.



4 **Mesure** tous les crayons avec ta règle graduée, puis **colorie** ceux qui ont la même longueur que le crayon **rouge**.

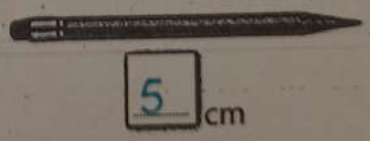


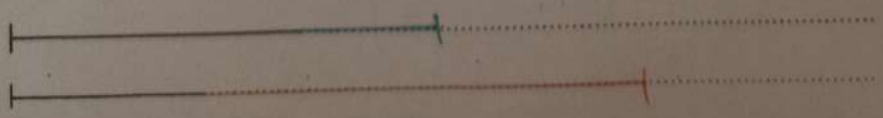
5 **Prolonge** le segment **bleu** pour qu'il mesure 6 cm de long, et le segment orange pour qu'il mesure 9 cm de long.